1 класс

Проверочная работа №1

1. Раскрась:

а) верхний левый кружок – красным цветом;

б) нижний правый кружок – синим цветом;

в) верхний правый кружок – зелёным цветом;

г) нижний левый кружок – жёлтым цветом.

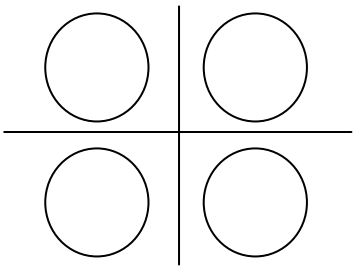

2. Запиши цифрой, сколько:

а) больших кругов;

б) маленьких кругов;

в) синих кругов;

г) зелёных кругов;

д) больших красных кругов;

е) маленьких синих кругов.

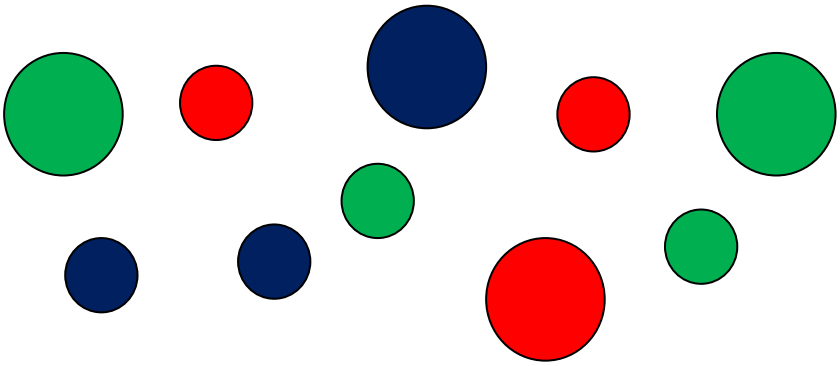

3. Выполни задания:

а) запиши цифрой, сколько яблок ты видишь;

б) нарисуй столько же палочек, сколько яблок;

в) нарисуй кружков меньше, чем яблок;

г) нарисуй треугольников больше, чем яблок.

4. **Запиши цифрой числа:** четыре, девять, пять, семь, два, восемь, нуль, шесть, один, три.

5. **Выбери ряд чисел, которым можно пользоваться для счёта предметов, и продолжи его сколько сможешь.**

а) 1, 2, 5, 6, 7, 8, …

б) 1, 2, 3, 4, 6, 7, 8, …

в) 8, 4, 5, 9, 1, 2, …

г) 1, 2, 3, 4, 5, 6, 7, …

д) 1, 2, 3, 4, 8, 9, 7, …

6. **Выполни задания:**

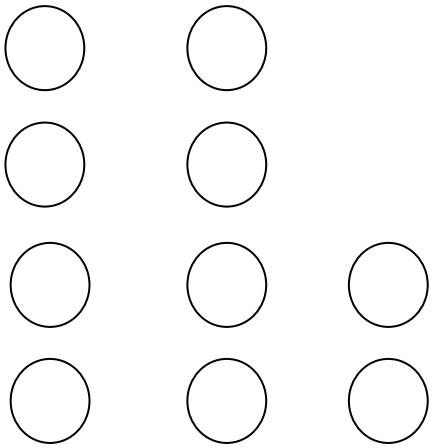

а) в первом ряду раскрась круги так, чтобы синий круг был перед красным;

б) во втором ряду закрась круги так, чтобы зелёный был за красным;

в) в третьем ряду раскрась круги так, чтобы зелёный был между синим и красным;

г) в четвёртом ряду раскрась круги так, чтобы зелёный круг был перед красным, а синий круг перед зелёным.

Источник

Истомина Н.Б., Шмырёва Г.Г. Контрольные работы по математике. 1 класс – Смоленск: Ассоциация XXIвек, 2004. – 64 с.